Централизованное тестирование по географии, 2019

При выполнении заданий с кратким ответом впишите в поле для ответа цифру, которая соответствует номеру правильного ответа, или число, слово, последовательность букв (слов) или цифр. Ответ следует записывать без пробелов и каких-либо дополнительных символов.

В заданиях, где нужно установить соответствие между двумя столбцами, ответ запишите в виде сочетания букв и цифр, соблюдая алфавитную последовательность букв левого столбца. Некоторые данные правого столбца могут использоваться несколько раз или не использоваться вообще. Например: А1Б1В4Г2.

Если вариант задан учителем, вы можете вписать или загрузить в систему ответы к заданиям с развернутым ответом. Учитель увидит результаты выполнения заданий с кратким ответом и сможет оценить загруженные ответы к заданиям с развернутым ответом. Выставленные учителем баллы отобразятся в вашей статистике.

1.

Город Гомель относительно города Минска расположен по направлению на:

1) северо-запад 2) юго-восток
3) юго-запад 4) запад.

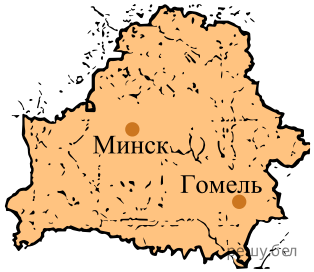

Карта составлена по состоянию на 01.01.2019

2. Климатическая карта Северной Америки масштаба 1 : 35 000 000 является:

1) тематической мелкомасштабной 2) общегеографической мелкомасштабной
3) общегеографической среднемасштабной 4) тематической среднемасштабной

3. На фрагменте плана местности использован условный знак:

1) обрыв 2) редкий лес (редколесье) 3) болото проходимое
4) линия электропередачи

4. Воздушная масса, под влиянием которой формируется климат в субэкваториальном климатическом поясе зимой

1) экваториальная 2) тропическая 3) умеренная 4) полярная

5.

На картосхеме отмечено течение Мирового океана:

1) Бенгельское 2) Бразильское
3) Западных Ветров 4) Южное Пассатное

Карта составлена по состоянию на 01.01.2019

6.

Укажите тип почв, которые относятся к числу зональных в природной зоне, отмеченной на карте Южной Америки цветом:

1) сероземы 2) красноземы
3) красно-бурые 4) каштановые

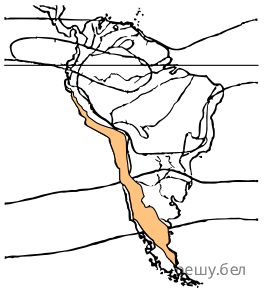

Карта составлена по состоянию на 01.01.2019

7. Показанное на рисунке животное является эндемиком материка:

1) Евразия 2) Австралия 3) Африка 4) Северная Америка

8.

На карте цветом выделено государство:

1) Армения 2) Грузия
3) Азербайджан 4) Узбекистан

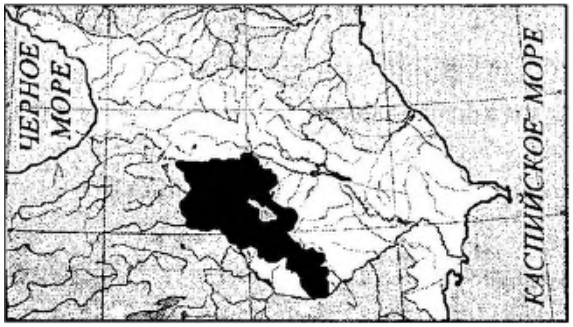

Карта составлена по состоянию на 01.01.2019

9.

Общая черта для выделенных на карте мира государств:

1) государства — члены БРИКС
2) государства — лидеры по объемам экспорта услуг и доле в мировом экспорте услуг
3) главные страны — производители электроэнергии
4) ведущие страны по количеству туристских прибытий

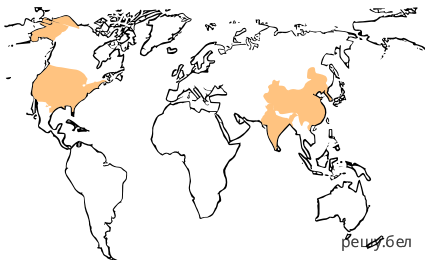

Карта составлена по состоянию на 01.01.2019

10. Унитарным по форме политико-территориального устройства является государство:

1) Мексика 2) Литва 3) Аргентина 4) Канада

11. Пространственная форма разделения труда, которая выражается в специализации отдельных стран на производстве определенных видов товаров и услуг, предназначенных для реализации за их пределами, — это:

1) торговля 2) вид экономической деятельности
3) международная экономическая интеграция
4) международное географическое разделение труда

12. Укажите регион, которому соответствует диаграмма:

1) Северная Америка 2) Африка 3) Азия 4) Австралия и Океания

13. В характеристике промышленности мира ВЕРНЫМ является утверждение:

1) уменьшается удельный вес гидроэлектроэнергии в топливно-энергетическом балансе
2) в региональной структуре производства чугуна наибольшая доля принадлежит Европе
3) в общем объеме производства автомобилей преобладают легковые автомобили

4) в структуре производства тканей преобладают ткани из натуральных волокон

14. В характеристике мировой сферы услуг ВЕРНЫМ является утверждение:

1) отмечается тенденция увеличения доли сферы услуг в структуре мирового валового продукта
2) в структуре грузооборота ведущее место принадлежит воздушному транспорту
3) в структуре перевозимых морским транспортом грузов преобладает готовая продукция
4) Индия входит в первую тройку стран по количеству туристских прибытий

15.
В характеристике природной зоны Африки, выделенной на карте цветом, ОШИБОЧНЫМ является утверждение:

1) выпадает более 1000 мм осадков в год
2) формируются почвы сероземы, каменистые или песчаные
3) для природной зоны Южного полушария характерны запасающие влагу суккуленты (алоэ, молочаи, дикие арбузы);
4) животный мир беден.

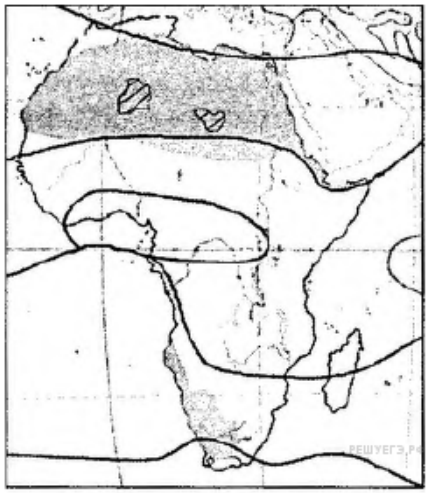

Карта составлена по состоянию на 01.01.2019

16. Для социально-экономического развития Южно-Африканской Республики (ЮАР) характерна:

1) федеративная форма политико-территориального устройства
2) занятость большей части населения в промышленности
3) ведущая роль черной металлургии в структуре обрабатывающей промышленности
4) ведущая роль растениеводства в структуре сельского хозяйства

17.
Для климатического пояса Австралии, отмеченного на карте буквой, ВЕРНЫМ является утверждение:

1) климат формируется под влиянием экваториальных воздушных масс в течение всего года
2) среднегодовые температуры воздуха составляют +30 °С
3) наибольшее количество осадков выпадает летом, зима сухая
4) в пределах пояса формируется три типа климата

Карта составлена по состоянию на 01.01.2019

18. В характеристике социально-экономического развития Австралийского Союза ВЕРНЫМ является утверждение:

1) наибольшая плотность населения отмечается в центральных районах страны
2) в структуре ВВП наибольшая доля принадлежит сфере услуг
3) предприятия обрабатывающей промышленности работают преимущественно на привозном угле
4) обеспеченность пашней на душу населения одна из самых низких в мире

19. В характеристике природы Антарктиды ВЕРНЫМ является утверждение:

1) Антарктида — самый низкий по абсолютной высоте материк (с ледовым покровом)
2) наибольшая часть пресной воды планеты содержится в ледниках Антарктиды
3) наименьшее количество осадков выпадает на побережье и антарктических островах
4) в антарктических оазисах преобладают высшие растения

20. Укажите географический объект, расположенный в пределах материка Южная Америка:

1) Оринокская низменность 2) вулкан Этна 3) горы Аппалачи
4) водопад Виктория

21. В характеристике социально-экономического развития Бразилии ОШИБОЧНЫМ является утверждение:

1) на Бразильском плоскогорье имеются залежи железных и марганцевых руд
2) в сельском хозяйстве занята наименьшая часть населения
3) расположена одна из крупнейших в мире ГЭС — Итайпу
4) в грузообороте страны ведущая роль принадлежит железнодорожному транспорту

22. Предложенная климатограмма соответствует климату в пункте, отмеченном на карте Северной Америки точкой с цифрой:

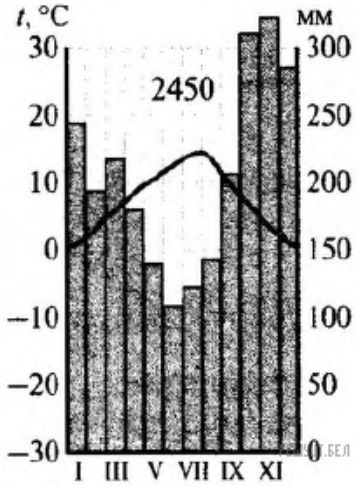

Карта составлена по состоянию на 01.01.2019

1) 1 2) 2 3) 3 4) 4

23. В характеристике социально-экономического развития Канады ОШИБОЧНЫМ является утверждение:

1) плотность населения низкая
2) большая часть электроэнергии вырабатывается на ГЭС
3) цветная металлургия развивается преимущественно на местном сырье
4) в структуре сельского хозяйства ведущая роль принадлежит растениеводству

24. ВЕРНЫМ в характеристике природы Евразии является утверждение:

1) Японские острова расположены в пределах Альпийско-Гималайского складчатого пояса
2) Евразия расположена в пяти климатических поясах
3) в Гималаях отсутствуют ледниковые озера
4) котловина озера Байкал имеет тектоническое происхождение

25. Для социально экономического развития стран Южной Европы характерно:

1) преобладание католиков среди верующих в Греции
2) развитие черной металлургии в Италии исключительно на собственном сырье
3) размещение крупных нефтеперерабатывающих предприятий в портовых городах
4) возделывание бахчевых культур преимущественно для экспорта

26. Для социально-экономического развития Польши характерна(-о):

1) низкая доля населения трудоспособного возраста
2) развитие преимущественно неметаллоемкого машиностроения
3) ведущая роль растениеводства в структуре сельского хозяйства
4) ведущая роль железнодорожного транспорта

27. В характеристике социально-экономического развития Индии ВЕРНЫМ является утверждение:

1) большая часть населения живет в городах
2) по производству электроэнергии на душу населения занимает лидирующую позицию в мире
3) большую часть сельскохозяйственной продукции производит растениеводство
4) главный предмет импорта — каменный уголь

28. Укажите ряд, в котором все предложенные географические объекты расположены в пределах России:

1) река Обь — река Сырдарья — река Дон;
2) Мертвое море — Каспийское море — озеро Ладожское;
3) Уральские горы — горы Кавказ — плоскогорье Декан;
4) Валдайская возвышенность — Западно-Сибирская равнина — Среднесибирское плоскогорье

29. В характеристике социально-экономического развития России ВЕРНЫМ является утверждение:

1) в структуре населения наибольшая доля людей младше трудоспособного возраста
2) в топливно-энергетическом балансе страны наибольшую долю составляют нефть и газ
3) районы заготовки древесины и места ее потребления полностью совпадают
4) в структуре сельского хозяйства ведущая роль принадлежит растениеводству

30. Относительно географического положения Беларуси ВЕРНЫМ является утверждение:

1) крайний северный пункт страны расположен в Полоцком районе
2) глубина территории составляет 200 — 220 км
3) с Украиной граничат Гомельская и Могилевская области
4) наименее протяженным является участок государственной границы с Литвой

31. ВЕРНОЙ для Беларуси является следующая характеристика:

1) наибольшая часть территории расположена в пределах Воронежской антеклизы
2) месторождения доломитов приурочены к породам кристаллического фундамента в пределах Белорусской антеклизы
3) самая низкая точка рельефа расположена в пределах Неманской низменности
4) возвышенности занимают более половины территории

32. Для климата Беларуси характерно:

1) преобладание летом рассеянной солнечной радиации
2) преобладающее воздействие на климат страны арктических воздушных масс в течение года
3) выпадение наибольшего годового количества осадков на низменностях южных районов страны
4) увеличение высоты снежного покрова с юго-запада на северо-восток

33. К бассейну Черного моря относится река:

1) Ясельда 2) Неман 3) Западная Двина 4) Западный Буг

34.
ВЕРНЫМ выводом из анализа карто-диаграммы является следующий:

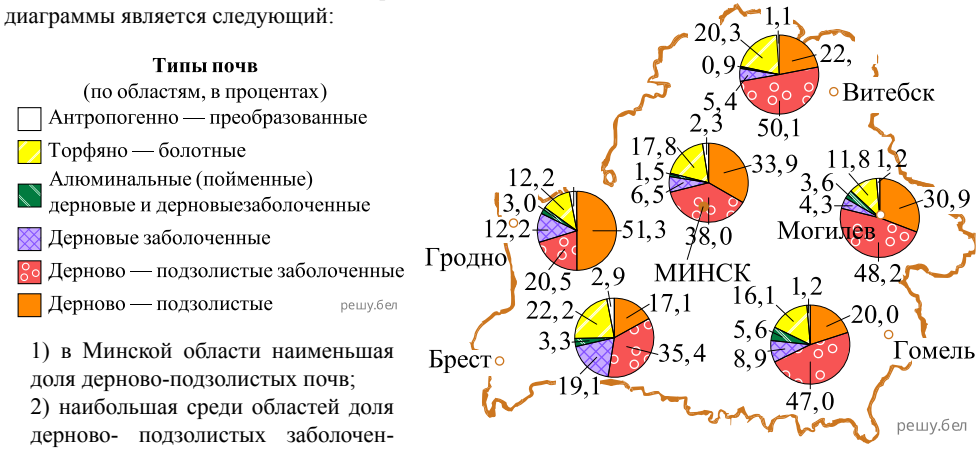

Карта составлена по состоянию на 01.01.2019

1) в Минской области наименьшая доля дерново-подзолистых почв;
2) наибольшая среди областей доля дерново- подзолистых заболоченных почв — в Гродненской области;
3) наибольшая среди областей доля дерновых заболоченных почв — в Могилевской области;
4) в Брестской области доля торфяно-болотных почв больше, чем в Гомельской области.

35. Для населения Беларуси характерно(-а):

1) проживание украинцев компактной группой преимущественно в восточных районах страны
2) тенденция уменьшения доли пожилых людей в структуре населения
3) наибольшая доля населения трудоспособного возраста
4) наименьшая плотность сельского населения вокруг крупных городов

36. Промышленный центр, в котором находится предприятие по производству цемента:

1) Кричев 2) Слоним 3) Бобруйск 4) Светлогорск

37. Для сельского хозяйства Беларуси характерно(-а):

1) выращивание зерновых культур только в южных районах страны
2) многоотраслевая структура растениеводства
3) наибольшая доля говядины в структуре производства мяса
4) наличие крупных комплексов по разведению овец во всех областях страны

38. В характеристике транспорта Беларуси ВЕРНЫМ является утверждение:

1) через Минск проходит большее количество направлений железных дорог, чем через Оршу
2) у большей части дорог общего пользования отсутствует твердое покрытие
3) по Неману и Августовскому каналу перевозится большая часть грузов речного транспорта
4) в общей сети магистральных трубопроводов преобладают газопроводы

39. Установите соответствие между условным знаком и его названием:

Исследование

А) поиски в 1492 году морского пути в Индию, открытие Америки
Б) изучение в 20-х гг. XX века центров происхождения культурных растений, организация научных экспедиций по изучению растительности Средиземноморья
В) плавание вдоль побережья островов Гренландии и Ньюфаундленда, открытие полуострова Лабрадор
Г) организация уроженцем Беларуси нескольких экспедиций на острова в Северном Ледовитом океане

Исследователь

1) Джон Кабот
2) Джеймс Кук
3) Николай Вавилов
4) Христофор Колумб
5) Отто Шмидт

Ответ запишите в виде сочетания букв и цифр, соблюдая алфавитную последовательность букв левого столбца. Помните, что не все данные правого столбца могут быть использованы для ответа. Например: А2Б1В4Г5.

40. Расположите последовательно с запада на восток (от нулевого меридиана) следующие географические объекты:

1) полуостров Камчатка
2) пустыня Такла-Макан
3) озеро Верхнее
4) Прикаспийская низменность

Ответ запишите цифрами, соблюдая полученную последовательность. Например: 2143.

41. Установите соответствие между климатограммой климатического пояса (области) и пунктом, отмеченным на кар те Евразии точкой с цифрой:

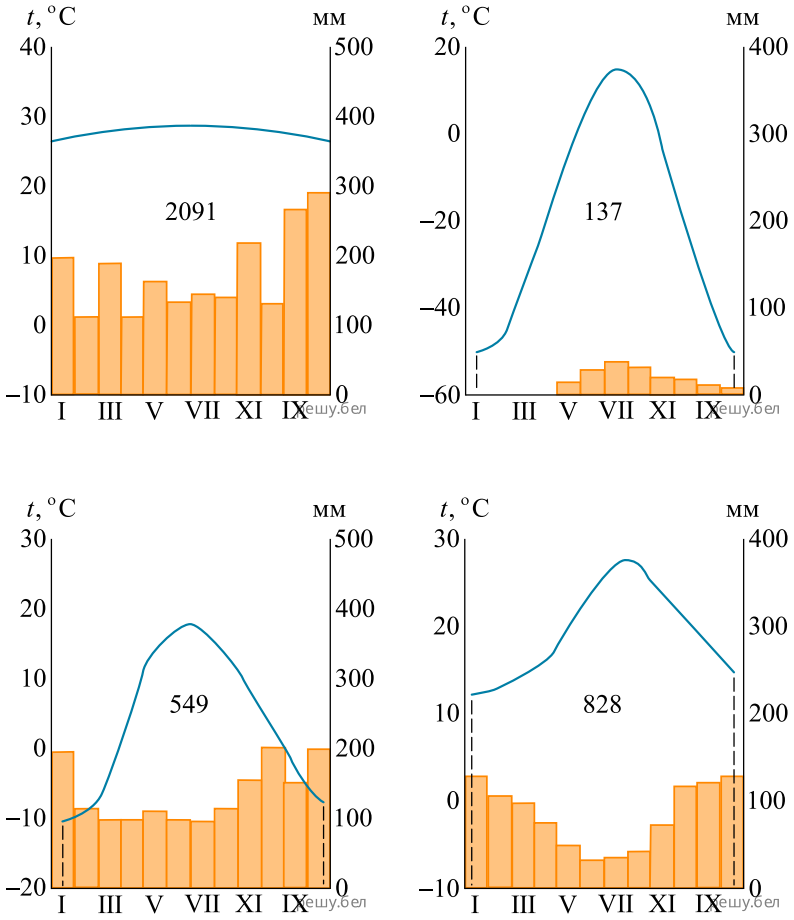

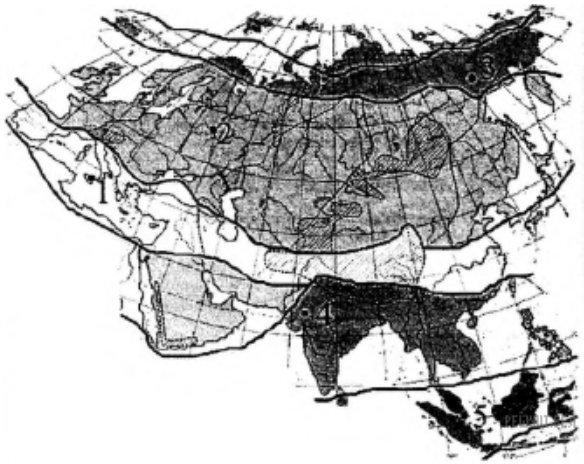

Карта составлена по состоянию на 01.01.2019

Ответ запишите в виде сочетания букв и цифр, соблюдая алфавитную последовательность букв. Помните, что не все данные, отмеченные на карте, могут быть использованы для ответа. Например: А2Б1В4Г5.

42. Низменные полосы морского побережья, затопляемые только во время наиболее высоких приливов или нагонов морской воды, — это ....

Дополните предложение и запишите ответ в виде слова (или нескольких слов) в той форме, в которой оно должно быть употреблено в предложении.

43. Вставьте в приведенном тексте на места пропусков слова из предложенного списка, подходящие по смыслу.

В США по численности населения и масштабам экономики крупнейшими являются штаты: Нью-Йорк, Калифорния, (А)_____. Среди расово-этнических групп населения наибольшую долю составляют (Б)_____. Страна входит в тройку ведущих стран — производителей (В)_____. В растениеводстве доминирует возделывание (Г)_____культур.

Список слов:
1) Аляска
2) афроамериканцы
3) Техас
4) потомки европейцев
5) ветровая энергия
6) технические
7) морские суда
8) зерновые

Выбирайте слова последовательно, мысленно вставляя их на места пропусков в нужной форме. Помните, что не все слова могут быть использованы для ответа. Каждое слово может быть использовано только один раз. Ответ запишите в виде сочетания букв и цифр, соблюдая алфавитную последовательность букв. Например: А2Б1В4Г5.

44. Установите соответствие.

Река	Принадлежность к бассейну
А) Амур	1) Тихий океан
Б) Енисей	2) Индийский океан
В) Замбези	3) Атлантический океан
Г) Ориноко	4) Северный Ледовитый океан
	5) бассейн внутреннего стока

Ответ запишите в виде сочетания букв и цифр, соблюдая алфавитную последовательность букв левого столбца. Помните, что не все данные правого столбца могут быть при этом использованы. Например: А2Б1В4Г5.

45. Установите соответствие:

Характеристика государства

А) самое многонациональное государство в мире
Б) постиндустриальное государство, входящее в тройку мировых лидеров по производству фармацевтической продукции
В) крупнейшее по площади территории государство на материке, входящее в тройку мировых лидеров по производству калийных удобрений
Г) государство, в котором расположен крупнейший в мире по грузообороту морской порт

Государство

1) Китай
2) Германия
3) Канада
4) Индия
5) Бразилия

Ответ запишите в виде сочетания букв и цифр, соблюдая алфавитную последовательность букв левого столбца. Помните, что не все данные правого столбца могут быть при этом использованы. Например: А2Б1В4Г5.

46. В Беларуси к Припятскому прогибу приурочено Речицкое месторождение ....

Дополните предложение и запишите ответ в виде слова (или нескольких слов) в той форме, в которой оно должно быть употреблено в предложении.

47. Вставьте в приведенном тексте на места пропусков слова из предложенного списка, подходящие по смыслу.

Гродненская область граничит с Польшей и (А)_____. На ее территории расположен ландшафтный заказник (Б)_____. В области сконцентрировано все производство в стране (В)_____и синтетического аммиака. В городе (Г) _____, расположенном на реке Щаре, производится бумага и картон.

Список слов:
1) Слоним
2) Латвия
3) Литва
4) Ельня
5) Волковыск
6) Свитязянский
7) картофелеуборочные машины
8) свеклоуборочные комбайны

Выбирайте слова последовательно, мысленно вставляя их на места пропусков в нужной форме. Помните, что не все слова могут быть использованы для ответа. Каждое слово может

быть использовано только один раз. Ответ запишите в виде сочетания букв и цифр, соблюдая алфавитную последовательность букв. Например: А2Б1В4Г5.

48.
Установите соответствие между промышленным центром, отмеченным на картосхеме точкой с буквой, и его названием:

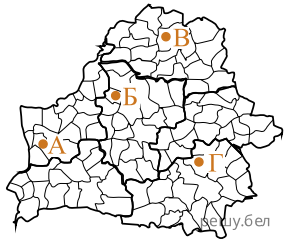

1) Жлобин
2) Волковыск
3) Новополоцк
4) Пинск
5) Молодечно

Ответ запишите в виде сочетания букв и цифр, со-Карта составлена по состоянию на 01.01.2019
блюдая алфавитную последовательность букв.
Помните, что не все названия городов могут быть при этом использованы. Например: А2Б1В4Г5.

49. Численность населения Венесуэлы — 31,0 млн человек (2016 г.). На сколько увеличилась численность жителей страны за год за счет естественного прироста населения, если коэффициент рождаемости составил 20 ‰, а коэффициент смертности — 5 ‰?

Ответ запишите цифрами в виде целого числа. Единицы измерения не указывайте. Например: 4500.

50. Определите абсолютную высоту горы в метрах, если температура воздуха у ее подножия, расположенного на высоте 397 м над уровнем моря, составляет +13 °С, а на ее вершине равна -8 °С.

Ответ запишите цифрами в виде целого числа. Единицы измерения не указывайте. Например: 3000.